Prove di ingresso Classe 3ª - SCIENZE

NOME_____COGNOME_____

IL CICLO DELL'ACQUA

A) Osserva l'immagine e completa il testo scrivendo le seguenti parole:
VAPORE - CIELO - ACQUA - PIOGGIA - NUVOLE.

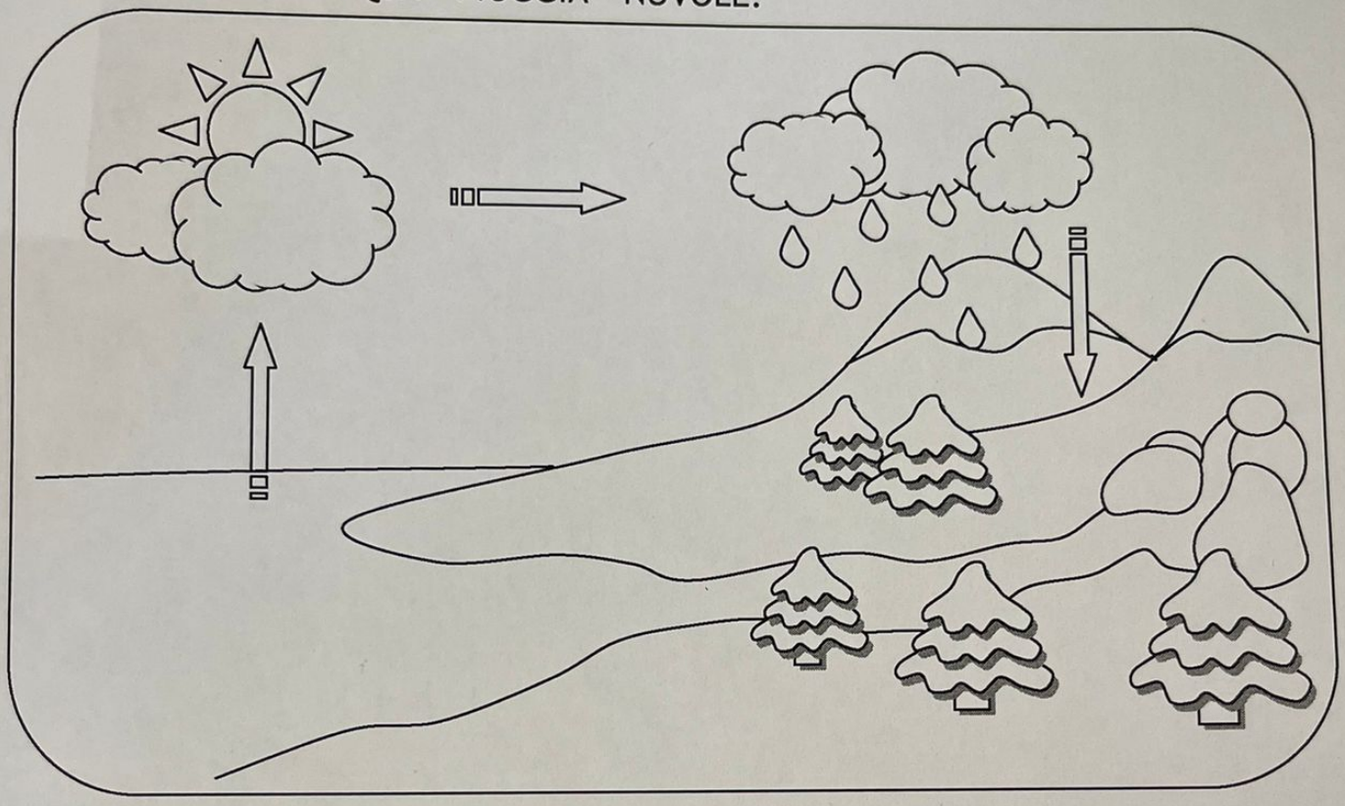

Il sole scalda l'_____ del mare. L'acqua si trasforma in _____; esso sale verso il _____ .
Lì si raffredda e forma le _____ .
Quando le goccioline di vapore di cui sono fatte le nuvole incontrano aria ancora più fredda, si uniscono e formano gocce ancora più grandi e pesanti. Queste gocce pesanti cadono a terra sotto forma di _____, grandine o neve. L'acqua così torna in parte ai fiumi e quindi al mare.
Il ciclo ricomincia.

GLI ANIMALI

B) Segna con una x se la frase è vera (V) o falsa (F).

Il serpente non ha le zampe. V F

Il gatto depone le uova. V F

La zanzara punge. V F

Il pesce ha due zampe. V F

I quadrupedi hanno quattro zampe. V F

MAGICA ACQUA

Completa le fasi del ciclo dell'acqua e riordinale numerandole da 1 a 3.

Le nuvole diventano sempre più grandi e pesanti finché l'acqua ricade sulla terra sotto forma di ....., ... o grandine.

☐



L'acqua dei mari, dei laghi e dei fiumi ..... grazie al calore del Sole.

☐



Il vapore, salendo verso l'alto, incontra aria fredda e si ..... in tante goccioline che formano le nuvole.

☐

Indica con una **X** se ogni frase è vera (**V**) o falsa (**F**).

	V	F
L'acqua è di colore azzurro.	☐	☐
L'acqua non ha alcun odore.	☐	☐
L'acqua è amara.	☐	☐

Elenca le principali caratteristiche dell'acqua.

.....

COSA OSSERVARE: ricostruisce il ciclo dell'acqua; conosce le caratteristiche dell'acqua.

Filomena Longo © Edizioni Didattiche Gulliver S.r.l.