TEST D'INGRESSO

Scheda 1

1 Scopri la regola e completa la sequenza.

24 → 27 → ..... → 33 → ..... → 39 → ..... → 45

2 Completa la tabella.

precedente	numero	successivo
.....	88	.....
54	55	.....
97	.....	99
.....	167	168
154	.....	.....

3 Completa con i segni > (maggiore) o < (minore).

99		89
34		22
77		81

50		62
88		73
117		21

92		95
139		122
52		60

4 Riscrivi i numeri dal minore al maggiore.

87 23 99 12 81 66 44 78

Scheda 2

1 In quale delle tre alternative ci sono scritti

A. ☐ 118 - 114 - 100 - 88 - 21 - 14

B. ☐ 198 - 150 - 160 - 22 - 4 - 66

C. ☐ 17 - 15 - 23 - 99 - 107 - 33

2 Quale numero scriveresti nel cartellino



3 Quale numero è rappresentato nel

A.

B.

C.

4 Conta per 2 da 10 fino ad arriv

10 • 12 • .....

.....

.....

TEST D'INGRESSO

Scheda 1

1 Scopri la regola e completa la sequenza.

24 → 27 → ..... → 33 → ..... → 39 → ..... → 45

2 Completa la tabella.

precedente	numero	successivo
.....	88	.....
54	55	.....
97	.....	99
.....	167	168
154	.....	.....

3 Completa con i segni > (maggiore) o < (minore).

99		89
34		22
77		81

50		62
88		73
117		21

92		95
139		122
52		60

4 Riscrivi i numeri dal minore al maggiore.

87 23 99 12 81 66 44 78

.....

5 Riscrivi i numeri dal maggiore al minore.

99 43 11 3 66 29 85 105

.....

PUNTEGGIO ___ / 21

Scheda 2

1 In quale delle tre alternative ci sono scritti solo numeri pari?

A. ☐ 118 - 114 - 100 - 88 - 21 - 14

B. ☐ 198 - 150 - 160 - 22 - 4 - 66

C. ☐ 17 - 15 - 23 - 99 - 107 - 33

2 Quale numero scriveresti nel cartellino?

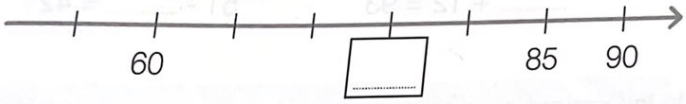

A. ☐ 80

B. ☐ 70

C. ☐ 75

3 Quale numero è rappresentato nell'abaco?

A. ☐ Sessantaquattro

B. ☐ Quarantasei

C. ☐ Sessantasette

4 Conta per 2 da 10 fino ad arrivare a 50 e scrivi i numeri.

10 • 12 • .....

.....

.....

5 Conta all'indietro per 5 da 100 a 10 e scrivi i numeri.

100 • 95 • .....

.....

.....

PUNTEGGIO ___ / 5

Scheda 3

1 Quale operazione ha il risultato sbagliato?

A. ☐ 27 : 3 = 9

B. ☐ 5 x 8 = 40

C. ☐ 84 - 7 = 76

2 Scrivi i numeri che mancano per completare le operazioni.

43 + ... = 62 ..... + 12 = 93 51 - ..... = 42

3 Calcola seguendo le indicazioni.

- Il doppio di 30 è .....
- Il triplo di 14 è .....

4 Quale segno è nascosto dalla macchia?

9 ● 8 = 72

A. ☐ + **B.** ☐ x **C.** ☐ :

5 Completa le tabelle.

+	4	10	8
43			
51			
18			
7			

-	5	2	23
39			
88			
99			
56			

x	2	5	7
3			
9			
8			
10			

6 Esegui le divisioni in riga.

30 : 5 = ... 45 : 9 = ... 36 : 4 = ... 48 : 6 = ...

PUNTEGGIO ___ / 47

Scheda 4

1 Risolvi il problema.

Un teatro ha 95 posti a sedere. Oggi gli spettatori sono 65.

Quanti posti a sedere sono rimasti vuoti?

- Operazione: .....
- Risposta: .....

2 Leggi il problema, indica con una X l'operazione per risolverlo e scrivi il risultato.

Carla compra 3 bustine di figurine in edicola. In ogni bustina ci sono 5 figurine.

Quante figurine ha in tutto Carla?

A. ☐ 5 : 3 = ... **B.** ☐ 5 + 3 = ... **C.** ☐ 5 x 3 = ...

3 Leggi il problema e indica la domanda adatta a completare il testo.

Ludovico ha letto 13 pagine di un libro. Per finirlo, deve leggerne altre 53.

A. ☐ Quante pagine deve ancora leggere?

B. ☐ Quante pagine ha in tutto il libro?

C. ☐ Quante pagine legge ogni giorno?

4 Quale problema puoi risolvere con l'operazione 36 : 2?

☐ La mamma ha comprato 2 confezioni da 36 cioccolatini. Quanti cioccolatini ha comprato in tutto?

☐ La mamma distribuisce in parti uguali 36 pennarelli ai suoi 2 figli. Quanti pennarelli riceverà ogni bambino?

PUNTEGGIO ___ / 4

Scheda 5

1 Colora di rosso la regione interna, di giallo la regione esterna e ripassa di blu il confine.

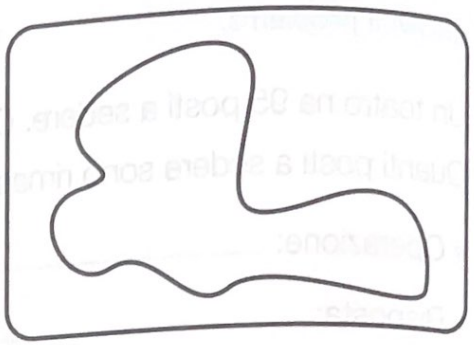

2 Come sono queste linee?
Completa con: retta • spezzata • mista • curva.

linea .....

linea .....

linea .....



linea .....

3 Conta e rispondi alle domande.



a. Quanti rettangoli ci sono? .....

b. Quanti cerchi? .....

c. Quanti triangoli? .....

d. Quanti quadrati? .....

4 Completa la figura in modo simmetrico, poi rispondi con una X.

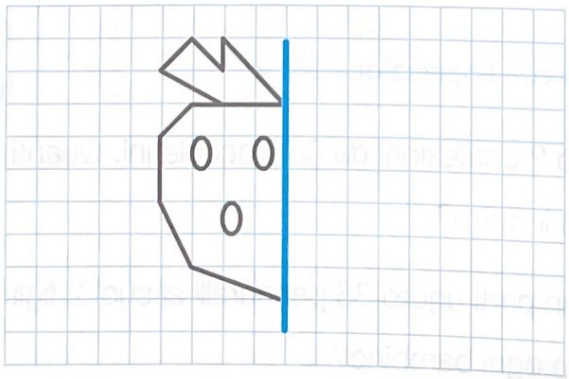

Com'è l'asse di simmetria?

☐ interno

☐ esterno

PUNTEGGIO ___ / 13

Scheda 6

1 Il cane Fido vuole raggiungere la sua cuccia e può compiere due percorsi diversi. Descrivili usando le frecce.

Scegli tra: ↑ → ↓ ←

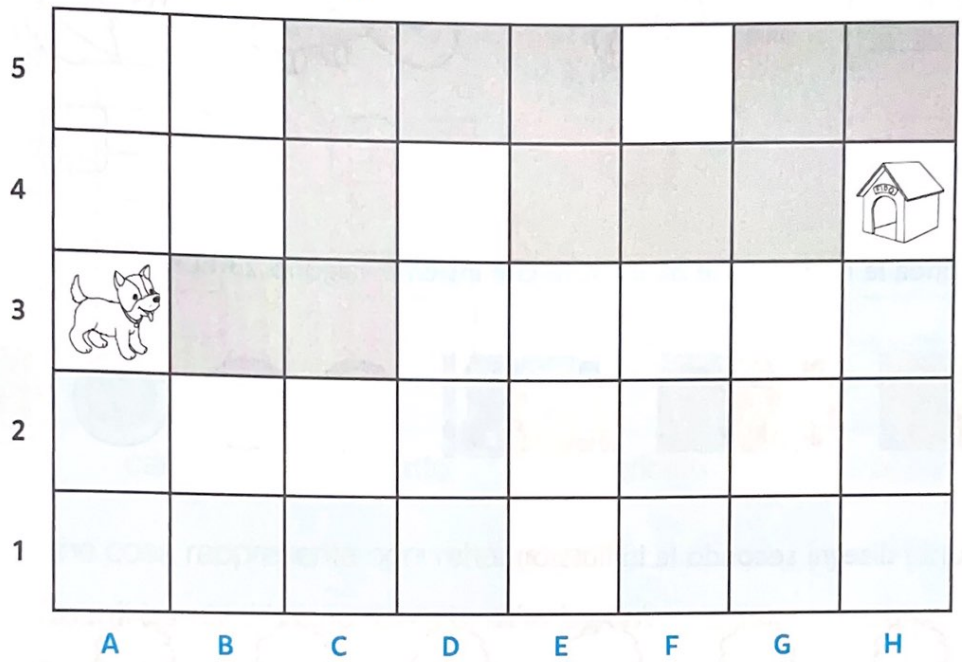

- Percorso grigio: .....
- Percorso celeste: .....

Rispondi.

- Qual è il percorso più breve? .....
- Quali sono le coordinate della casella in cui si trova la cuccia? (....., ...)

2 Leggi le coordinate e disegna nel reticolo.

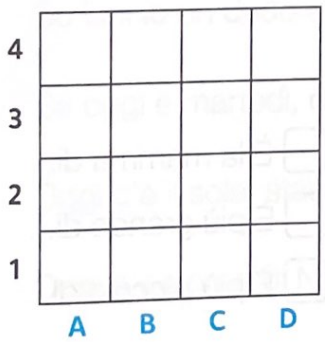

(B, 3)

(A, 1)

(C, 2)

(D, 4)

PUNTEGGIO ___ / 8

MISURE E RELAZIONI

Scheda 7

1 Riordina gli oggetti dal più pesante al meno pesante, numerando da 1 a 4.

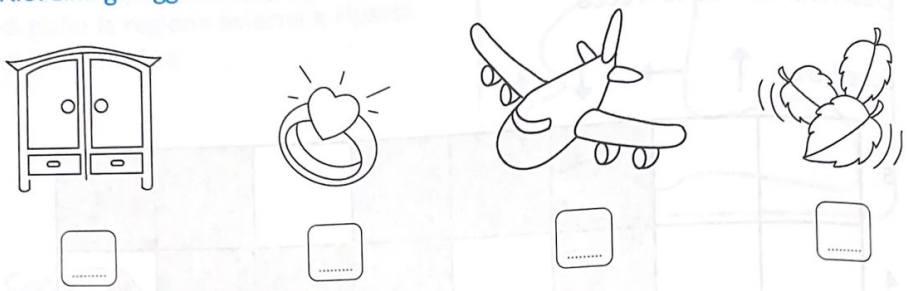

2 Circonda le monete e le banconote che insieme valgono 23 euro.

3 Colora i disegni secondo le indicazioni.



- Almeno due cappelli sono gialli.
- Nessun cappello è verde.
- Tanti cappelli sono rosa.
- Pochi cappelli sono blu.

4 Che cosa dice la freccia?

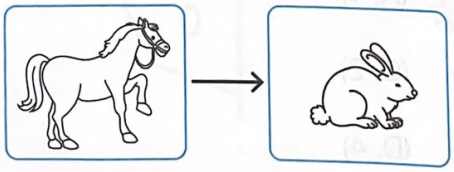

A. ☐ È la mamma di...
B. ☐ È più grande di...
C. ☐ È più piccolo di...

PUNTEGGIO ___ / 4

1 Il grafico rappr
Osserva e risp



- Che cosa r
- Quanti bar
- Qual è l'an
  Quante pr
- Qual è l'ar
  Quante pr
- Ci sono a

2 Leggi le affe

- Se lancio
- Se oggi è
- Oggi c'è
- Oggi è il

Scheda 8

1 Il grafico rappresenta gli animali domestici che gli alunni della 2ª A preferiscono. Osserva e rispondi alle domande.

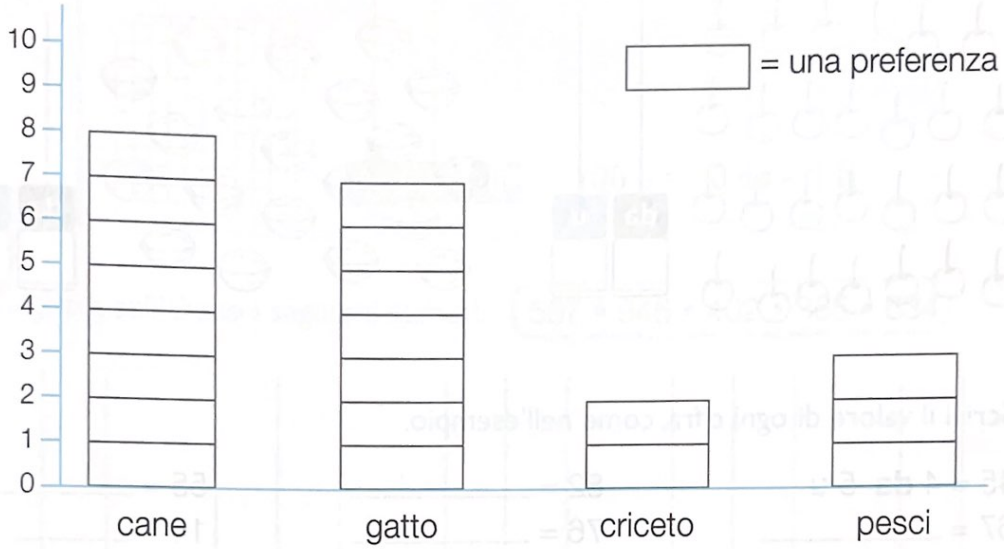

- Che cosa rappresenta ogni rettangolino? .....
- Quanti bambini hanno risposto all'indagine? .....
- Qual è l'animale preferito dagli alunni? .....

  Quante preferenze ha avuto? .....
- Qual è l'animale meno preferito? .....

  Quante preferenze ha avuto? .....
- Ci sono animali con lo stesso numero di preferenze? .....

2 Leggi le affermazioni e scrivi C (certo), P (possibile), I (impossibile).

- Se lancio un dado uscirà un numero minore di 7. ☐ .....
- Se oggi è martedì, domani sarà giovedì. ☐ .....
- Oggi c'è il sole, stasera non pioverà. ☐ .....
- Oggi è il giorno di Natale. Il mese prossimo sarà gennaio. ☐ .....

PUNTEGGIO ___ / 11